

Astre

http://juliette.hernando.free.fr

Un programme de construction de Cauralie.

1. Construis un carré ABCD dont les côtés mesurent 8 unités de longueur.
2. Place E le milieu de [AB].
3. Place F le milieu de [CD].
4. Place G le milieu de [AD] et H le milieu de [BC].
5. Trace les segments [AF], [BF], [DE], [EC], [BD], [AC] et [GH].





Astre

http://juliette.hernando.free.fr

Un programme de construction de Cauralie.

1. Construis un carré ABCD dont les côtés mesurent 8 unités de longueur.
2. Place E le milieu de [AB].
3. Place F le milieu de [CD].
4. Place G le milieu de [AD] et H le milieu de [BC].
5. Trace les segments [AF], [BF], [DE], [EC], [BD], [AC] et [GH].