

Les cheveux

http://juliette.hernando.free.fr

1. Place le point C vers le nord-ouest de façon à ce que le triangle AGC soit rectangle en A et que la longueur AC soit égale à 3 cm de longueur.
2. Trace le triangle AGC.
3. Place H sur [CG) tel que la longueur CH soit égale à 1,7 cm.
4. Place le point J vers le Nord tel que le triangle GHJ soit isocèle en I avec la longueur GI égale à 3cm.
5. Trace le triangle HGJ.
6. Place le point Q vers le Nord tel que le triangle GIQ soit rectangle en G et la longueur GQ égale à 3,5cm.
7. Trace le triangle QGI.
8. Place le point R sur le segment [QI] tel que la longueur RI soit égale à 3,5cm.
9. Construis le point S vers le nord est tel que SR soit égale à 2,5 cm et SI 3,2cm.
10. Trace le triangle RSI.
11. Construis le point T vers l'est tel que le triangle BIT soit équilatéral.
12. Trace le triangle IBT.
13. Place le point V sur [IT] tel que la longueur IV soit égale à 1,4 cm et VW à 4 cm.
14. Trace le triangle IVW.



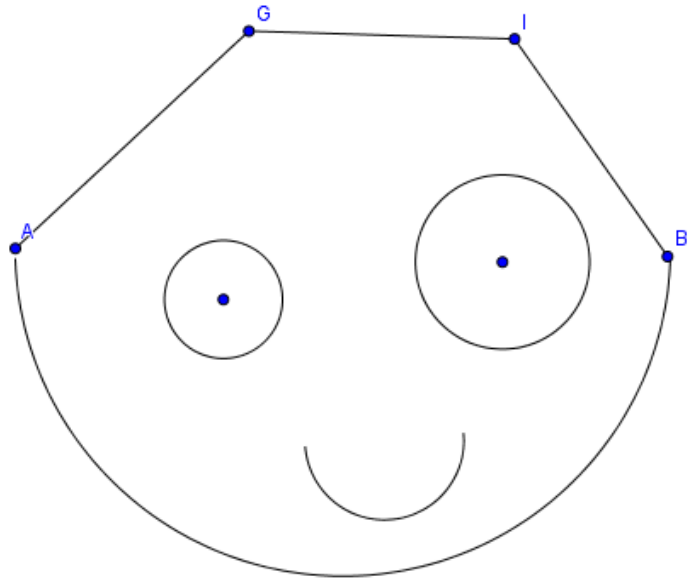
G
I
A
B